Section 17 Multiplication de grands nombres et calcul mental

1 **Illustre** chaque multiplication dans le tableau de numération.
Trouve le produit.

a) 204 × 2 = 408

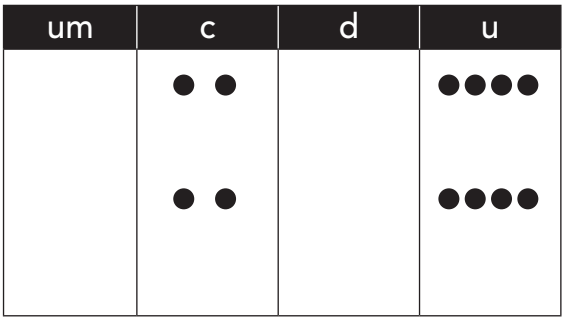

b) 131 × 3 = 393

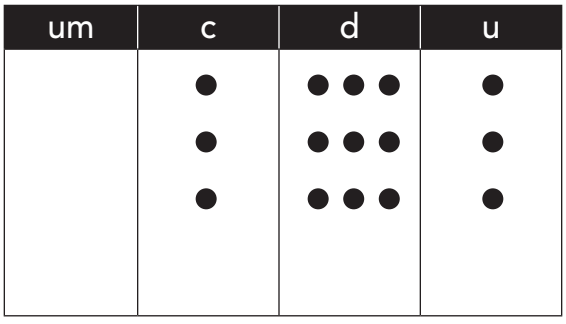

c) 234 × 4 = 936

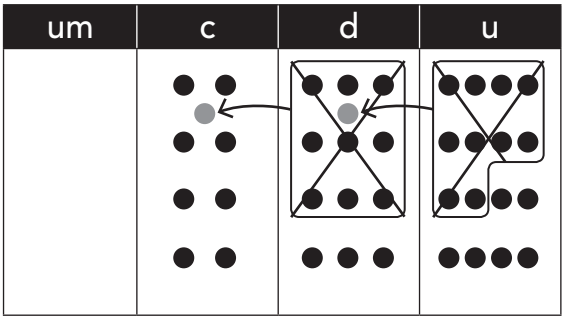

d) 307 × 3 = 921

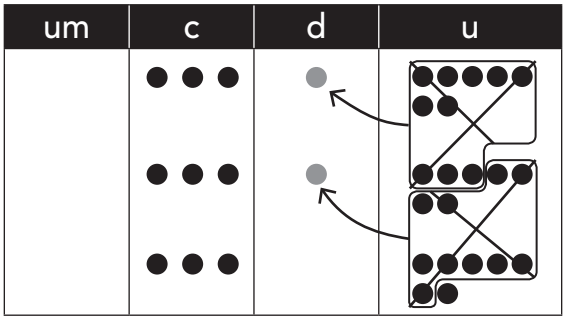

e) 260 × 4 = 1 040

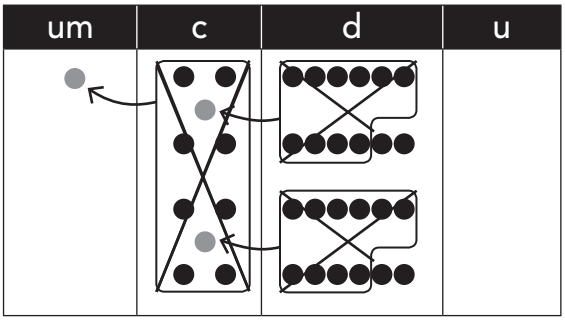

f) 385 × 2 = 770

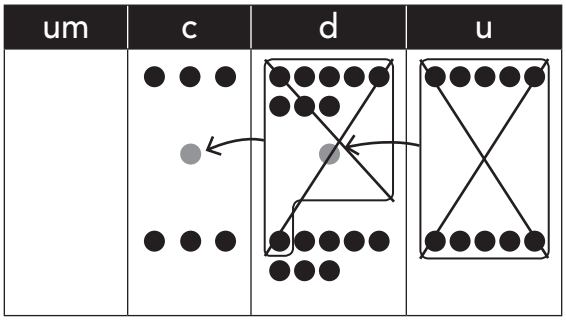

Reproduction autorisée © TC Média Livres Inc.

2 Lorsqu'elle fait de l'haltérophilie, Alexandra soulève 115 livres plusieurs fois. Si Alexandra fait 9 répétitions, combien de livres aura-t-elle soulevées ?

Alexandra aura soulevé **1 035** livres.

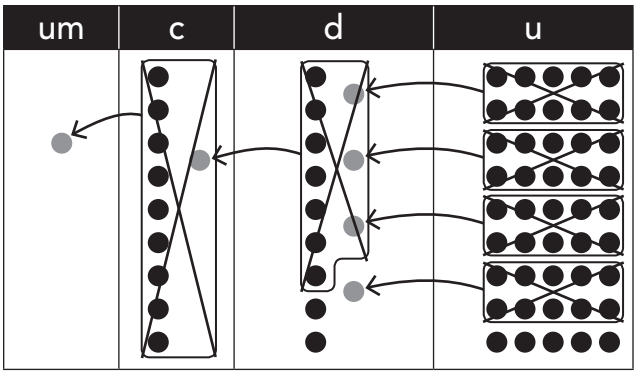

115 × 9 = 1 035

3 Dans son programme d'entraînement, Stéphanie doit faire 6 répétitions de 34 sauts. Combien de sauts Stéphanie fera-t-elle dans son programme ?

Stéphanie fera **204** sauts.

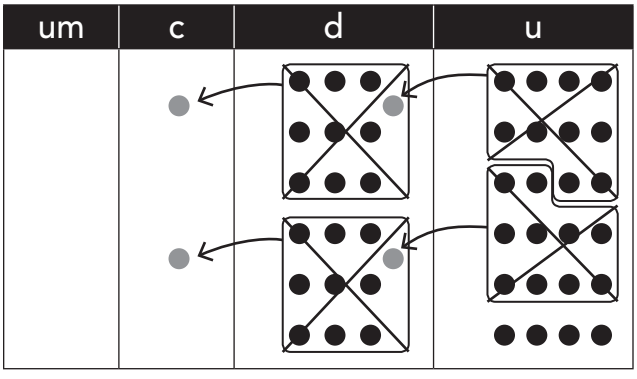

34 × 6 = 204

4 Julianne fait de l'équitation. Dans son parcours, elle doit sauter par-dessus 9 tonneaux et 7 clôtures. Si Julianne fait son parcours 8 fois, combien de sauts fera-t-elle ?

Julianne fera **128** sauts.

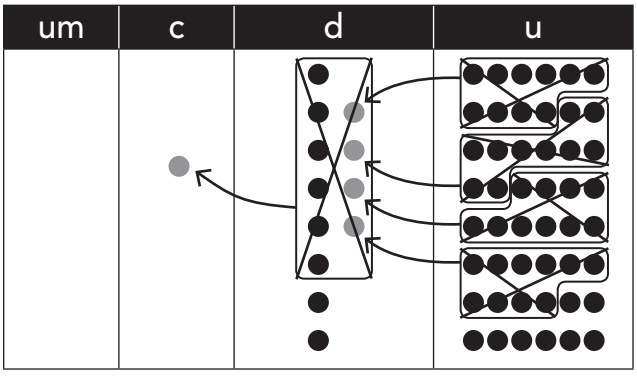

9 + 7 = 16 16 × 8 = 128

5 Justin faits 86 sauts à la corde en 1 minute. Combien de sauts Justin fera-t-il en 5 minutes ?

Justin fera **430** sauts à la corde.

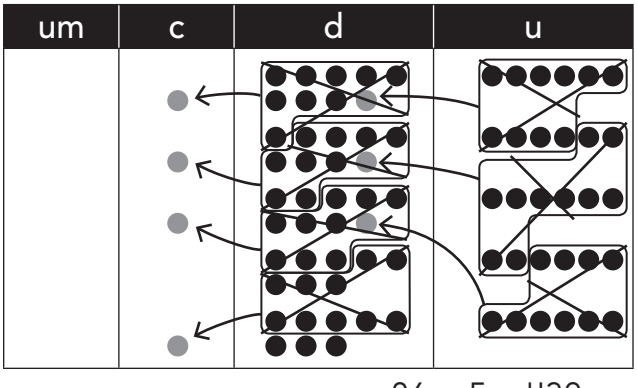

86 × 5 = 430

Reproduction autorisée © TC Média Livres Inc.